Codice del candidato:

Državni izpitni center

SESSIONE PRIMAVERILE

M 1 5 1 5 0 1 1 1 I

GEOGRAFIA

Prova d'esame 1

Geografia generale – Regioni selezionate

Martedì, 9 giugno 2015 / 90 minuti

Materiali e sussidi consentiti:
Al candidato è consentito l'uso della penna stilografica o della penna a sfera.
Al candidato viene consegnata una scheda di valutazione.
La prova d'esame comprende un allegato a colori.

MATURITÀ GENERALE

INDICAZIONI PER I CANDIDATI

Leggete con attenzione le seguenti indicazioni.
Non aprite la prova d'esame e non iniziate a svolgerla prima del via dell'insegnante preposto.

Incollate o scrivete il vostro numero di codice negli spazi appositi su questa pagina in alto a destra e sulla scheda di valutazione.

La prova d'esame si compone di 25 quesiti, risolvendo correttamente i quali potete conseguire fino a un massimo di 50 punti. Il punteggio conseguibile in ciascun quesito viene di volta in volta espressamente indicato.

Scrivete le vostre risposte negli spazi appositamente previsti **all'interno della prova** utilizzando la penna stilografica o la penna a sfera. Formulate delle frasi complete e leggibili: in caso di errore, tracciate un segno sulla risposta scorretta e scrivete accanto a essa quella corretta. Alle risposte e alle correzioni scritte in modo illeggibile verranno assegnati 0 punti.

Abbiate fiducia in voi stessi e nelle vostre capacità. Vi auguriamo buon lavoro.

La prova si compone di 12 pagine (1-12), di cui 1 vuota. L'allegato a colori si compone di 4 pagine (13-16), di cui 1 vuota.

© RIC 2015

M 1 5 1 5 0 1 1 1 I 0 2

Scientia Est Potentia Scientia Est Potentia Scientia Est Potentia Scientia Est Potentia Scientia Est Potentia
Scientia Est Potentia Scientia Est Potentia Scientia Est Potentia Scientia Est Potentia Scientia Est Potentia
Scientia Est Potentia Scientia Est Potentia Scientia Est Potentia Scientia Est Potentia Scientia Est Potentia
Scientia Est Potentia Scientia Est Potentia Scientia Est Potentia Scientia Est Potentia Scientia Est Potentia
Scientia Est Potentia Scientia Est Potentia Scientia Est Potentia Scientia Est Potentia Scientia Est Potentia
Scientia Est Potentia Scientia Est Potentia Scientia Est Potentia Scientia Est Potentia Scientia Est Potentia
Scientia Est Potentia Scientia Est Potentia Scientia Est Potentia Scientia Est Potentia Scientia Est Potentia
Scientia Est Potentia Scientia Est Potentia Scientia Est Potentia Scientia Est Potentia Scientia Est Potentia
Scientia Est Potentia Scientia Est Potentia Scientia Est Potentia Scientia Est Potentia Scientia Est Potentia
Scientia Est Potentia Scientia Est Potentia Scientia Est Potentia Scientia Est Potentia Scientia Est Potentia
Scientia Est Potentia Scientia Est Potentia Scientia Est Potentia Scientia Est Potentia Scientia Est Potentia
Scientia Est Potentia Scientia Est Potentia Scientia Est Potentia Scientia Est Potentia Scientia Est Potentia
Scientia Est Potentia Scientia Est Potentia Scientia Est Potentia Scientia Est Potentia Scientia Est Potentia
Scientia Est Potentia Scientia Est Potentia Scientia Est Potentia Scientia Est Potentia Scientia Est Potentia
Scientia Est Potentia Scientia Est Potentia Scientia Est Potentia Scientia Est Potentia Scientia Est Potentia
Scientia Est Potentia Scientia Est Potentia Scientia Est Potentia Scientia Est Potentia Scientia Est Potentia
Scientia Est Potentia Scientia Est Potentia Scientia Est Potentia Scientia Est Potentia Scientia Est Potentia
Scientia Est Potentia Scientia Est Potentia Scientia Est Potentia Scientia Est Potentia Scientia Est Potentia
Scientia Est Potentia Scientia Est Potentia Scientia Est Potentia Scientia Est Potentia Scientia Est Potentia
Scientia Est Potentia Scientia Est Potentia Scientia Est Potentia Scientia Est Potentia Scientia Est Potentia
Scientia Est Potentia Scientia Est Potentia Scientia Est Potentia Scientia Est Potentia Scientia Est Potentia
Scientia Est Potentia Scientia Est Potentia Scientia Est Potentia Scientia Est Potentia Scientia Est Potentia
Scientia Est Potentia Scientia Est Potentia Scientia Est Potentia Scientia Est Potentia Scientia Est Potentia
Scientia Est Potentia Scientia Est Potentia Scientia Est Potentia Scientia Est Potentia Scientia Est Potentia
Scientia Est Potentia Scientia Est Potentia Scientia Est Potentia Scientia Est Potentia Scientia Est Potentia
Scientia Est Potentia Scientia Est Potentia Scientia Est Potentia Scientia Est Potentia Scientia Est Potentia
Scientia Est Potentia Scientia Est Potentia Scientia Est Potentia Scientia Est Potentia Scientia Est Potentia
Scientia Est Potentia Scientia Est Potentia Scientia Est Potentia Scientia Est Potentia Scientia Est Potentia
Scientia Est Potentia Scientia Est Potentia Scientia Est Potentia Scientia Est Potentia Scientia Est Potentia
Scientia Est Potentia Scientia Est Potentia Scientia Est Potentia Scientia Est Potentia Scientia Est Potentia
Scientia Est Potentia Scientia Est Potentia Scientia Est Potentia Scientia Est Potentia Scientia Est Potentia
Scientia Est Potentia Scientia Est Potentia Scientia Est Potentia Scientia Est Potentia Scientia Est Potentia
Scientia Est Potentia Scientia Est Potentia Scientia Est Potentia Scientia Est Potentia Scientia Est Potentia
Scientia Est Potentia Scientia Est Potentia Scientia Est Potentia Scientia Est Potentia Scientia Est Potentia
Scientia Est Potentia Scientia Est Potentia Scientia Est Potentia Scientia Est Potentia Scientia Est Potentia
Scientia Est Potentia Scientia Est Potentia Scientia Est Potentia Scientia Est Potentia Scientia Est Potentia
Scientia Est Potentia Scientia Est Potentia Scientia Est Potentia Scientia Est Potentia Scientia Est Potentia
Scientia Est Potentia Scientia Est Potentia Scientia Est Potentia Scientia Est Potentia Scientia Est Potentia
Scientia Est Potentia Scientia Est Potentia Scientia Est Potentia Scientia Est Potentia Scientia Est Potentia
Scientia Est Potentia Scientia Est Potentia Scientia Est Potentia Scientia Est Potentia Scientia Est Potentia
Scientia Est Potentia Scientia Est Potentia Scientia Est Potentia Scientia Est Potentia Scientia Est Potentia
Scientia Est Potentia Scientia Est Potentia Scientia Est Potentia Scientia Est Potentia Scientia Est Potentia
Scientia Est Potentia Scientia Est Potentia Scientia Est Potentia Scientia Est Potentia Scientia Est Potentia
Scientia Est Potentia Scientia Est Potentia Scientia Est Potentia Scientia Est Potentia Scientia Est Potentia
Scientia Est Potentia Scientia Est Potentia Scientia Est Potentia Scientia Est Potentia Scientia Est Potentia
Scientia Est Potentia Scientia Est Potentia Scientia Est Potentia Scientia Est Potentia Scientia Est Potentia
Scientia Est Potentia Scientia Est Potentia Scientia Est Potentia Scientia Est Potentia Scientia Est Potentia
Scientia Est Potentia Scientia Est Potentia Scientia Est Potentia Scientia Est Potentia Scientia Est Potentia
Scientia Est Potentia Scientia Est Potentia Scientia Est Potentia Scientia Est Potentia Scientia Est Potentia
Scientia Est Potentia Scientia Est Potentia Scientia Est Potentia Scientia Est Potentia Scientia Est Potentia
Scientia Est Potentia Scientia Est Potentia Scientia Est Potentia Scientia Est Potentia Scientia Est Potentia
Scientia Est Potentia Scientia Est Potentia Scientia Est Potentia Scientia Est Potentia Scientia Est Potentia
Scientia Est Potentia Scientia Est Potentia Scientia Est Potentia Scientia Est Potentia Scientia Est Potentia
Scientia Est Potentia Scientia Est Potentia Scientia Est Potentia Scientia Est Potentia Scientia Est Potentia
Scientia Est Potentia Scientia Est Potentia Scientia Est Potentia Scientia Est Potentia Scientia Est Potentia
Scientia Est Potentia Scientia Est Potentia Scientia Est Potentia Scientia Est Potentia Scientia Est Potentia
Scientia Est Potentia Scientia Est Potentia Scientia Est Potentia Scientia Est Potentia Scientia Est Potentia
Scientia Est Potentia Scientia Est Potentia Scientia Est Potentia Scientia Est Potentia Scientia Est Potentia
Scientia Est Potentia Scientia Est Potentia Scientia Est Potentia Scientia Est Potentia Scientia Est Potentia
Scientia Est Potentia Scientia Est Potentia Scientia Est Potentia Scientia Est Potentia Scientia Est Potentia
Scientia Est Potentia Scientia Est Potentia Scientia Est Potentia Scientia Est Potentia Scientia Est Potentia
Scientia Est Potentia Scientia Est Potentia Scientia Est Potentia Scientia Est Potentia Scientia Est Potentia
Scientia Est Potentia Scientia Est Potentia Scientia Est Potentia Scientia Est Potentia Scientia Est Potentia
Scientia Est Potentia Scientia Est Potentia Scientia Est Potentia Scientia Est Potentia Scientia Est Potentia
Scientia Est Potentia Scientia Est Potentia Scientia Est Potentia Scientia Est Potentia Scientia Est Potentia
Scientia Est Potentia Scientia Est Potentia Scientia Est Potentia Scientia Est Potentia Scientia Est Potentia
Scientia Est Potentia Scientia Est Potentia Scientia Est Potentia Scientia Est Potentia Scientia Est Potentia
Scientia Est Potentia Scientia Est Potentia Scientia Est Potentia Scientia Est Potentia Scientia Est Potentia
Scientia Est Potentia Scientia Est Potentia Scientia Est Potentia Scientia Est Potentia Scientia Est Potentia
Scientia Est Potentia Scientia Est Potentia Scientia Est Potentia Scientia Est Potentia Scientia Est Potentia
Scientia Est Potentia Scientia Est Potentia Scientia Est Potentia Scientia Est Potentia Scientia Est Potentia
Scientia Est Potentia Scientia Est Potentia Scientia Est Potentia Scientia Est Potentia Scientia Est Potentia
Scientia Est Potentia Scientia Est Potentia Scientia Est Potentia Scientia Est Potentia Scientia Est Potentia
Scientia Est Potentia Scientia Est Potentia Scientia Est Potentia Scientia Est Potentia Scientia Est Potentia
Scientia Est Potentia Scientia Est Potentia Scientia Est Potentia Scientia Est Potentia Scientia Est Potentia
Scientia Est Potentia Scientia Est Potentia Scientia Est Potentia Scientia Est Potentia Scientia Est Potentia
Scientia Est Potentia Scientia Est Potentia Scientia Est Potentia Scientia Est Potentia Scientia Est Potentia
Scientia Est Potentia Scientia Est Potentia Scientia Est Potentia Scientia Est Potentia Scientia Est Potentia

Non scrivete nel campo grigio.

Non scrivete nel campo grigio.

Geografia generale

1. Cerchiate le due risposte esatte.

   Gli esperti che si occupano dei processi di modellamento esogeno esaminano:

   Il movimento delle placche litosferiche | l'erosione delle montagne | gli effetti dei terremoti

   le frane | gli sprofondamenti della costa

(2 punti)

2. Indicate la morfologia glaciale del rilievo che, nella figura 1, è contrassegnato dalla lettera A e spiegate la sua formazione.

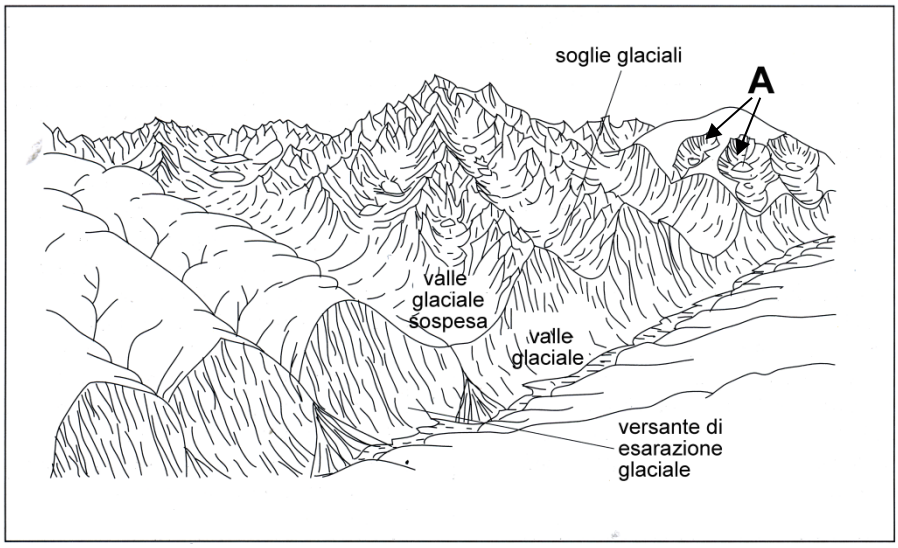

Figura 1: Territorio alla fine del periodo glaciale

(Adattato da: Hočevar, M., *et al.*, 2000: Geografija, shematski pregledi, p. 28. Tehniška založba Slovenije. Lubiana)

Morfologia del rilievo: _____

Formazione: _____

_____

(2 punti)

3. Confrontate le regioni polari dell'emisfero settentrionale e di quello meridionale, e spiegate perché la glaciazione è maggiormente estesa nelle zone del Polo Sud. Aiutatevi con la figura 1 dell'allegato a colori.

_____

_____

(1 punto)

4. Le figure 1 e 2 dell'allegato a colori rappresentano due principali tipi di glaciazione. Sulla riga che precede ciascuna delle seguenti affermazioni segnate il numero 1 se essa è valida per la figura 1, segnate il numero 2 se è valida per la figura 2 e i numeri 1 e 2 se è valida per tutte e due le figure. Segate il numero 0 se non è valida per nessuna delle figure.

_____ Questa glaciazione ha interessato la zona della Slovenia.

_____ L'estensione della glaciazione era maggiore nel pleistocene.

_____ Sul modellamento del rilievo ha influito solo l'erosione glaciale, ma non l'accumulazione.

(3 punti)

5. Spiegate perché, nelle valli interessate dalla glaciazione, la costruzione delle vie di comunicazione è più facile che nelle valli non interessate dal modellamento glaciale.

_____

_____

(2 punti)

Non scrivete nel campo grigio.

Non scrivete nel campo grigio.

Il mondo 1

6. Indicate il nome della regione polare rappresentata dalla figura 2 e il nome del mare, che nella figura 2 è contrassegnato dalla lettera A.

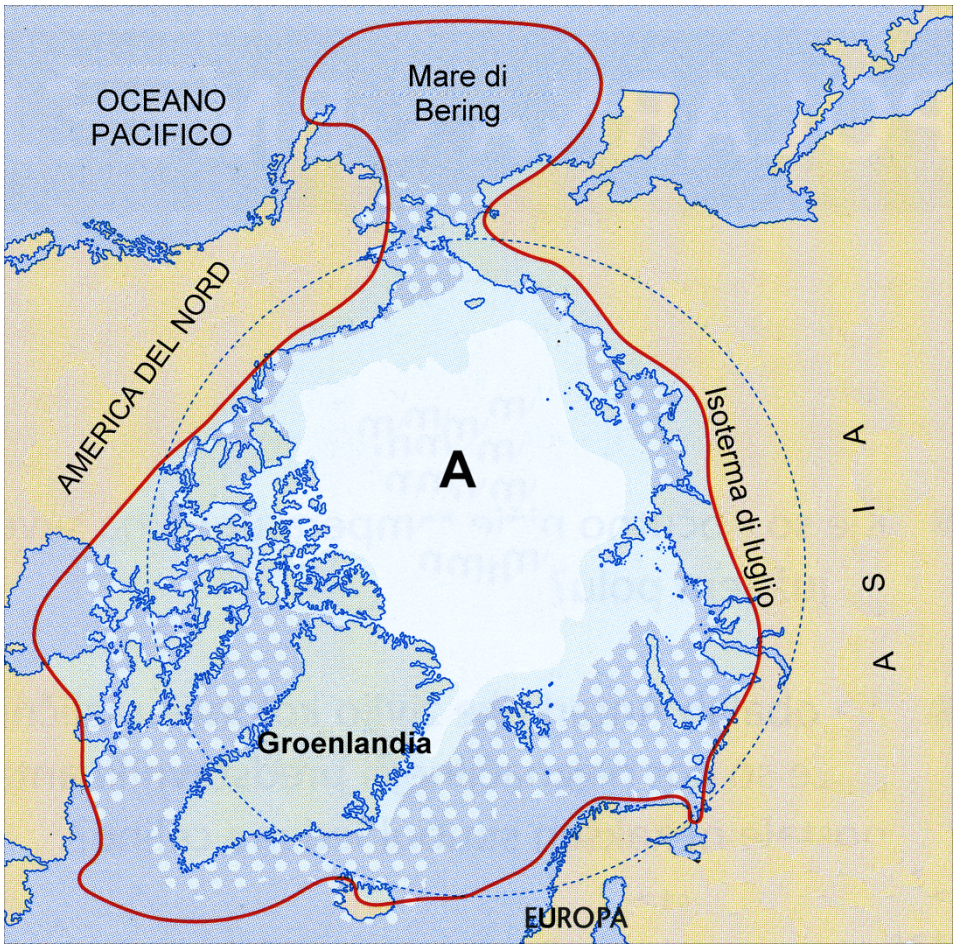

Figura 2

(Adattato da: Senegačnik, J., 2013: Svet, geografija za 2. letnik gimnazij, p. 140. Modrijan. Lubiana)

Regione polare: _____

Mare: _____

(2 punti)

7. Cerchiate le lettere che precedono le risposte corrette sulle *pampas*.

A Si sono formate con l'orogenesi alpina.

B Giacciono interamente nella fascia tropicale.

C Sono una regione steppica e a Sud si fondono con la Patagonia.

D A ovest ricevono una quantità minore di precipitazioni rispetto alla parte orientale.

(2 punti)

Non scrivete nel campo grigio.

8. Le figure 3 e 4 dell'allegato a colori rappresentano l'orografia dell'Africa. Segnate il numero della figura dell'allegato in cui è rappresentato l'Atlante e spiegate il processo di formazione di queste montagne.

Numero della figura: _____

Spiegazione: _____

_____

_____

(3 punti)

9. Indicate quale tipo di pressione atmosferica prevale sulla penisola arabica.

_____

(1 punto)

10. Indicate il nome della maggiore pianura in India, caratterizzata da una delle più elevate densità di popolazione, e spiegate la causa fisico-geografica di tale popolamento.

Pianura: _____

Spiegazione: _____

_____

_____

(2 punti)

Non scrivete nel campo grigio.

Il mondo 2

11. Cerchiate SÌ se l'affermazione è corretta, NO se non lo è.

    SÌ NO In Cina la natalità è stata abbassata con diversi provvedimenti.

    SÌ NO In Indonesia prevale il buddismo.

(2 punti)

12. Indicate il nome delle due religioni originatesi nell'Asia Sud-occidentale.

    1 _____

    2 _____

(2 punti)

13. In Brasile prevale la popolazione bianca. Indicate un altro stato dell'America del Sud in cui prevale la popolazione bianca e descrivete l'influenza del clima sulla massiccia immigrazione dall'Europa.

    Stato: _____

    Descrizione: _____

    _____

(2 punti)

14. Descrivete due cause geografico-antropiche dell'immigrazione nella zona della »fascia del sole« (Sun Belt) dell'America Settentrionale.

    1 _____

    _____

    2 _____

    _____

(2 punti)

15. Spiegate due influenze sulla qualità di vita nelle città africane, derivate dal cambiamento del numero di abitanti.

    1 _____

    _____

    2 _____

    _____

(2 punti)

Non scrivete nel campo grigio.

Europa 1

16. Con l'aiuto della figura 5 dell'allegato a colori, per ciascuna affermazione, segnate SÌ se essa è corretta e NO se non lo è.

_____ Sulla pianura padana vi è un'alta pressione atmosferica.

_____ Nei prossimi giorni, con molta probabilità, il fronte perturbato attraverserà il golfo di Biscaglia.

(2 punti)

17. Segnate la lettera del climatogramma della figura 3 che rappresenta le caratteristiche del clima continentale nella fase umida, e descrivete le caratteristiche del tipo di precipitazioni presenti in questo clima.

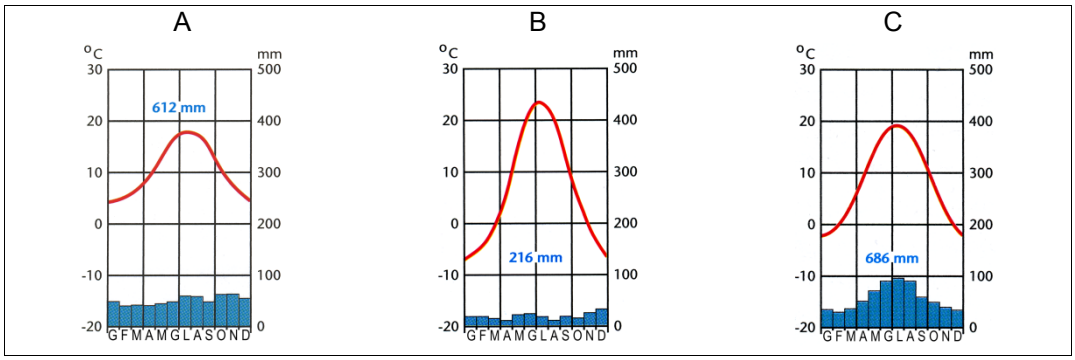

Figura 3

(Adattato da: Senegačnik, J., 2011: Evropa, geografija za 2. in 3. letnik gimnazij, p. 14, 38, 65. Modrijan. Lubiana)

Lettera: _____

Descrizione: _____

_____

(2 punti)

18. Leggete il testo. Indicate il nome del campo di pressione atmosferico in cui si è formato il fronte perturbato e indicate il nome dei venti costanti (planetari) che hanno influito sulla direzione di movimento della perturbazione temporalesca appena citata.

> 5 dicembre 2013
> Il cattivo tempo, con abbondanti precipitazioni e violenti venti si è formato sull'Atlantico. Il fronte perturbato si sposta attraverso il Nord della Gran Bretagna verso le coste dei Paesi Bassi e della Germania. Sussiste un elevato pericolo di esondazioni dovute all'alta marea.

(Adattato da: http://www.rtvslo.si/okolje/foto-evropa-v-boju-z-orkanskim-neurjem/324301. Acquisito il 5. 12. 2013.)

Campo di pressione atmosferico: _____

Venti planetari: _____

(2 punti)

Non scrivete nel campo grigio.

19. Cerchiate la caratteristica climatica che limita il popolamento e l'agricoltura nella zona dell'Europa orientale, che nella legenda della figura 6 dell'allegato a colori è contrassegnata dalla lettera A, e descrivete la causa di questa caratteristica della zona in questione.

Basse escursioni termiche annue Piogge estive

Siccità estiva Basse temperature estive

Descrizione: _____

_____

(2 punti)

20. A causa delle elevate temperature, la federazione sciistica internazionale ha sospeso lo slalom di coppa del mondo sullo Sljeme presso Zagabria, spostandolo a Bormio in Italia settentrionale. Le due località sciistiche sono rappresentate dalle figure 7 e 8 dell'allegato a colori. Indicate il nome del fattore climatico che ha influito in modo decisivo sul trasferimento dello slalom a Bormio, e spiegate l'influsso di questo fattore climatico sulla lunghezza della stagione sciistica.

Fattore climatico: _____

Spiegazione: _____

_____

_____

(2 punti)

M 1 5 1 5 0 1 1 1 I 1 0

Non scrivete nel campo grigio.

Europa 2

21. La figura 9 dell'allegato a colori rappresenta le singole fasi di ingrandimento dell'Unione europea fino al 2007. Indicate il nome dello stato, tra i più grandi dell'Europa meridionale, che è entrato a far parte dell'Unione europea già nel 1981, anche se nella figura risulta non esserne membro. Indicate anche lo stato che nel 2013 è entrato nell'Unione europea per ultimo.

Stato membro dell'UE dal 1981: _____

Stato membro dell'UE dal 2013: _____

(2 punti)

22. In riferimento all'esportazione di merci, descrivete due vantaggi dell'essere membri dell'Unione europea, che garantiscono guadagni maggiori agli esportatori.

1 _____

_____

2 _____

_____

(2 punti)

23. Indicate il nome del cuore economico (centrale) dell'Europa che si estende da Londra alla pianura padana. Cerchiate la lettera dinnanzi alle descrizioni che rappresentano nel modo più corretto le sue caratteristiche demografiche ed economiche all'inizio del XXI secolo.

Cuore economico: _____

A elevati introiti, industria sviluppata ad alta tecnologia, litoralizzazione (urbanizzazione forzata della costa), stile di vita spensierato, rapidi collegamenti ferroviari

B industria sviluppata ad alta tecnologia, basso tasso di disoccupazione, rete viaria molto sviluppata, investimenti delle compagne multinazionali

C industria sviluppata ad alta tecnologia, grande forza economica, elevato tasso di disoccupazione, turismo di massa sviluppato, rete viaria molto sviluppata

(2 punti)

Non scrivete nel campo grigio.

24. Per le caratteristiche del suo sviluppo economico, l'Italia meridionale si inserisce tra le regioni marginali d'Europa e risulta economicamente molto arretrata rispetto al Nord Italia. Descrivete due conseguenze, sentite dal Nord Italia e conseguenza del differente sviluppo economico rispetto al Meridione.

1 _____

_____

2 _____

_____

(2 punti)

25. Dopo il 1992, la politica agricola comune dell'Unione europea ha subito molti cambiamenti. Spiegate come l'attuale politica agricola comune tenti di influire positivamente sullo sviluppo delle regioni rurali.

_____

_____

_____

(2 punti)

Pagina vuota

Non scrivete nel campo grigio.

Non scrivete nel campo grigio.

Allegato a colori (alla Prova d'esame 1)

Figura 1

(Fonte: http://www.slovenskenovice.si/sites/slovenskenovice.si/files/styles/s_1280_1024/public/2013/12/10/jpg?itok=6HYvKfSm. Acquisito il 6. 1. 2014.)

Figura 2

(Fonte: http://www.opensoaring.com/NaKrilih/Odprave/Odprave_2011/Slike006_.jpg. Acquisito il 6. 1. 2014.)



Figura 3

(Fonte: G. Bergant)



Figura 4

(Fonte: www. tripadvisor.com%252FTourism-g293731-RegionVacations.html%3B550%B412. Acquisito il 9. 1. 2014.)

M 1 5 1 5 0 1 1 1 I 1 4

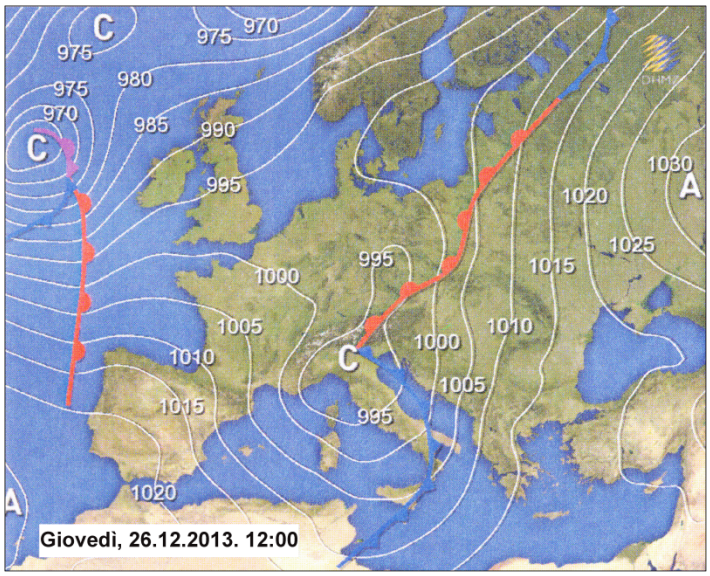

Figura 5

(Fonte: http://prognoza.hr/web_fronte_sutra12.jpg. Acquisito il 26. 12. 2013.)

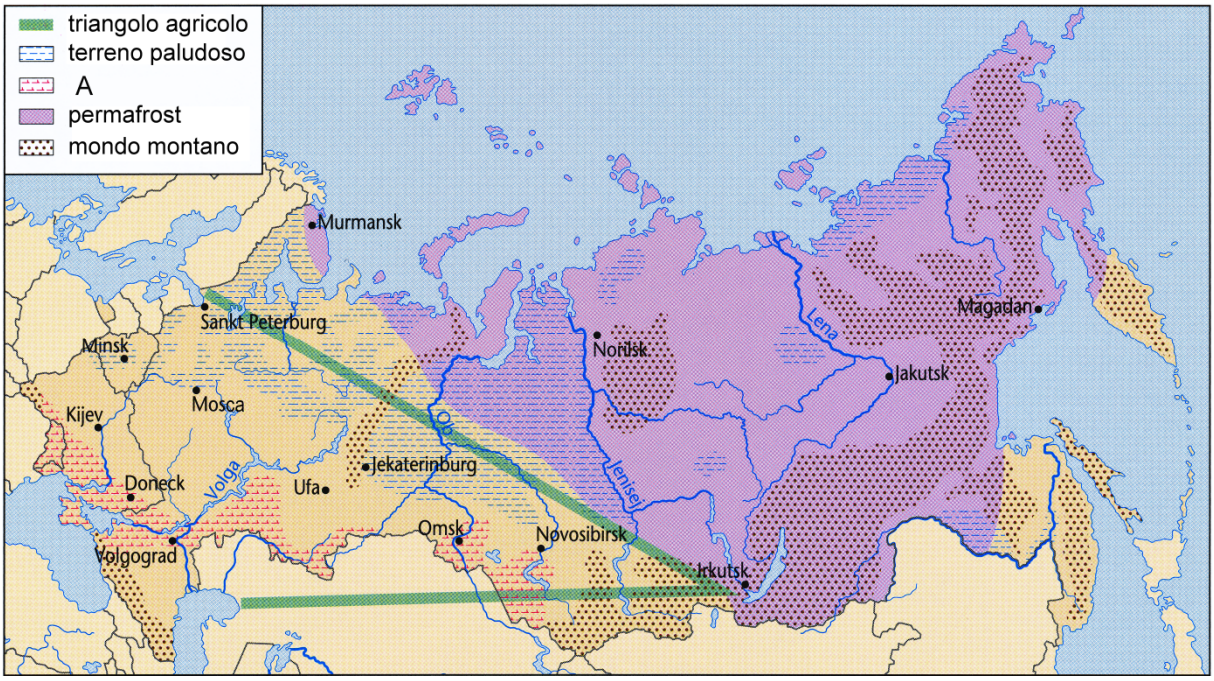

Figura 6: Fattori naturali che limitano il popolamento e l'agricoltura nell'Europa orientale

(Adattato da: Senegačnik, J., 2011: Evropa, geografija za 2. in 3. letnik gimnazij, p. 42. Modrijan. Lubiana)

Non scrivete nel campo grigio.

Non scrivete nel campo grigio.

Figura 7

(Fonte: http://croatia.hr/Images/t900x600-3373/sljeme_002.jpg. Acquisito il 28. 12. 2013.)

Figura 8

(Fonte: http://www.bormioski.eu/wp-content/uploads/2011/12/tracciato_peaktocreek2010.jpg. Acquisito il 28. 12. 2013.)

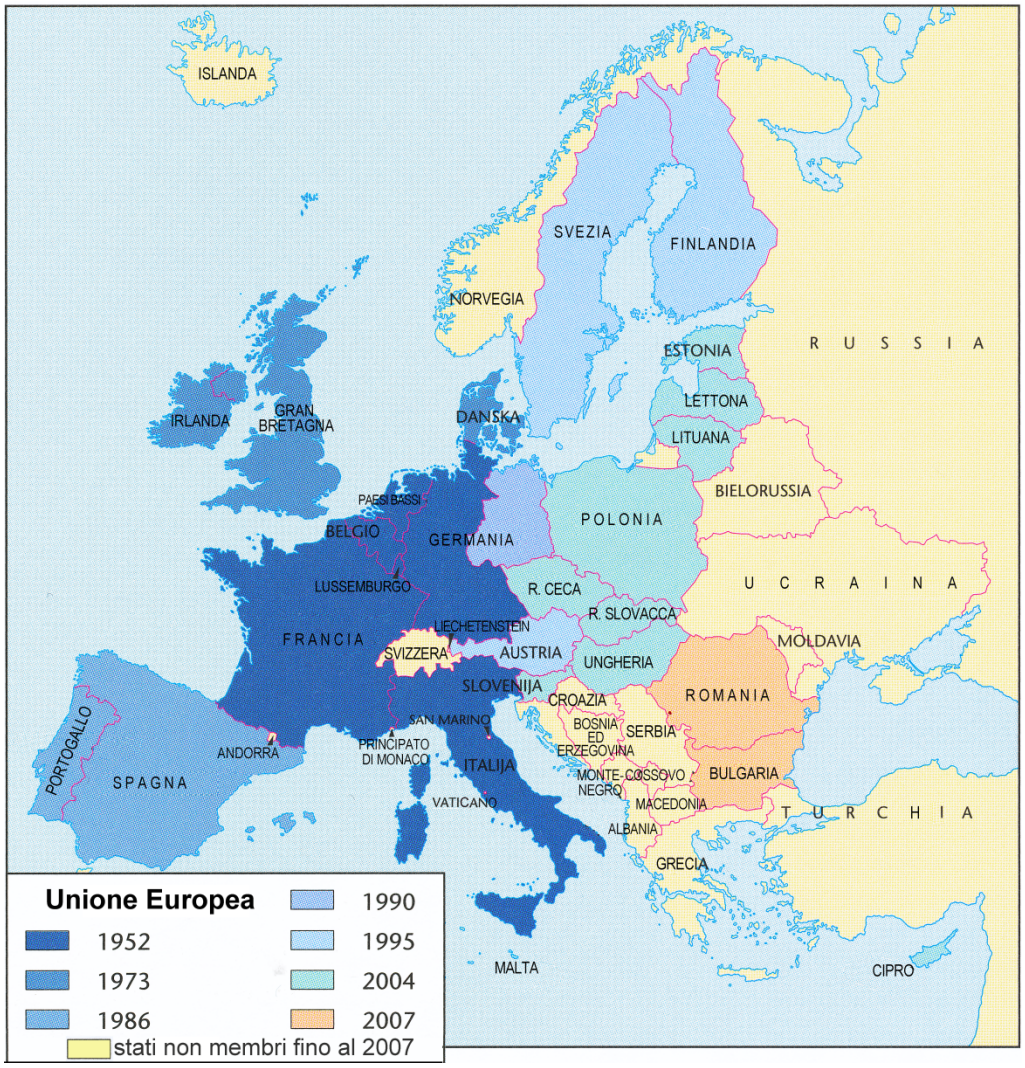

Figura 9: Fasi di ingrandimento dell'Unione europea fino al 2007

(Adattato da: Senegačnik, J., Lipovšek, I., in Pak, M. 2009: Evropa: geografija za 2. in 3. letnik gimnazij, p. 29. Modrijan. Lubiana)

M 1 5 1 5 0 1 1 1 I 1 6

Non scrivete nel campo grigio.

Pagina vuota