Šifra učenca:

Državni izpitni center

N 0 7 1 9 0 9 3 1

REDNI ROK



NACIONALNO PREVERJANJE ZNANJA
ob koncu 3. obdobja v prilagojenem izobraževalnem programu z nižjim izobrazbenim standardom

Ponedeljek, 7. maja 2007 / 60 minut

Dovoljeno gradivo in pripomočki: učenec prinese s seboj modro/črno nalivno pero ali moder/črn kemični svinčnik. Učenec dobi en obrazec za točkovanje.

NAVODILA UČENCU

Natančno preberi uvodna navodila.
Prilepi kodo oziroma vpiši svojo šifro v okvirček desno zgoraj na tej strani in na obrazec za točkovanje.
Preizkus je razdeljen na tri dele. V prvem delu boš reševal geografske naloge, v drugem delu naloge, ki preverjajo znanje zgodovine in v tretjem delu naloge, povezane z državljansko vzgojo in etiko.
Piši čitljivo. Če se zmotiš, napačni odgovor PREČRTAJ in ga napiši na novo.
Ne uporabljaj korekturnih sredstev.
Nečitljivi zapisi in nejasni popravki se ovrednotijo z nič (0) točkami.
Če se ti zdi naloga pretežka, se ne zadržuj predolgo pri njej, ampak začni reševati naslednjo.
K nerešeni nalogi se vrni kasneje. Na koncu svoje odgovore še enkrat preveri.
Zaupaj vase in v svoje zmožnosti.
Želimo ti veliko uspeha.

Preizkus ima 24 strani, od tega 4 prazne.

© RIC 2007

I. DEL

GEOGRAFIJA

1. naloga

Oglej si zemljevid 1 in reši nalogo.

Zemljevid 1: Zemljevid naravnih geografskih enot Slovenije

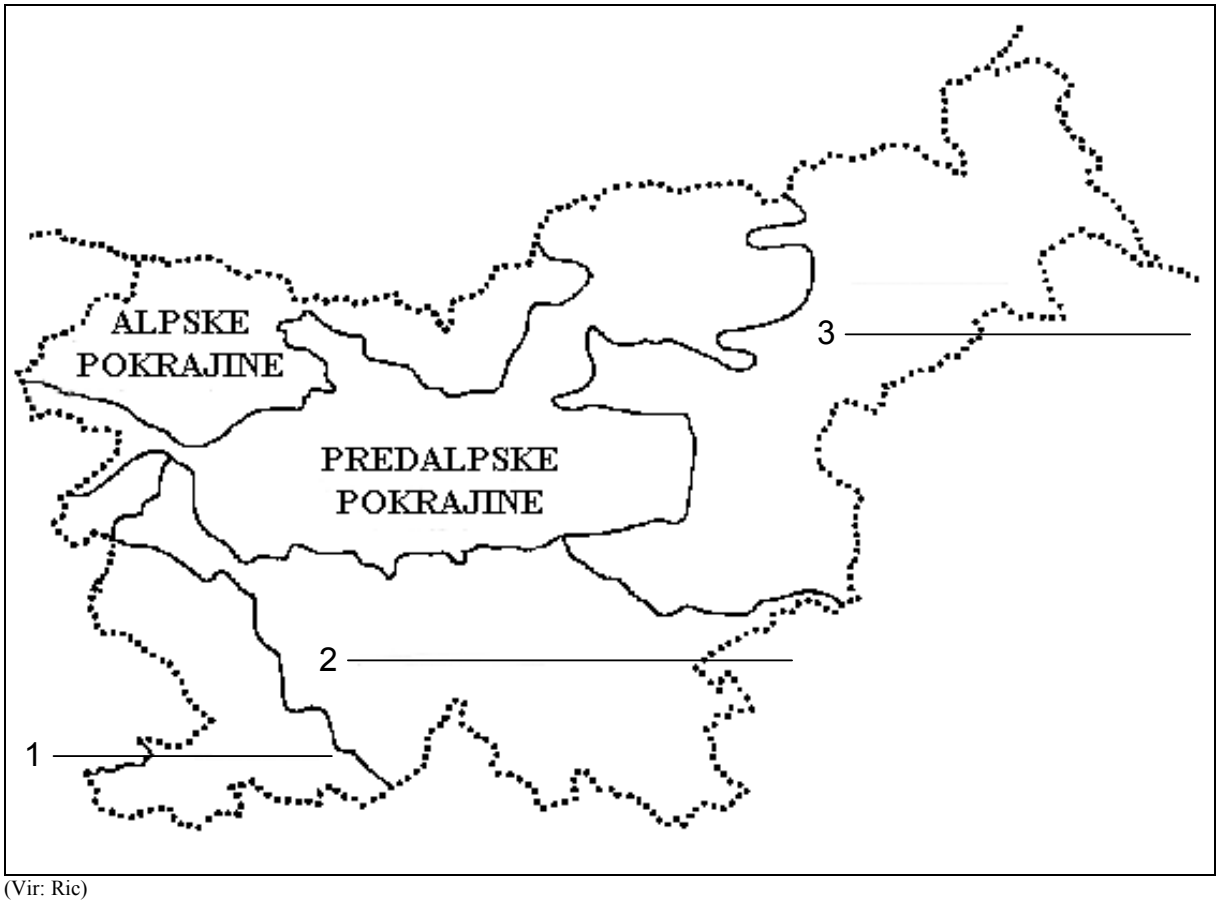

(Vir: Ric)

Na zemljevidu Slovenije so narisane naravne geografske enote.

Na črte ob številkah na zemljevidu 1 zapiši ime ustrezne naravne geografske enote Slovenije.

	3

2. naloga

H kateri vrsti prometa spadajo navedeni pojmi? Poveži po dva pravilna pojma z vrsto prometa tako, da na prazno črto pred pojmom vpišeš številko ustrezne vrste prometa.

POJMI:	VRSTE PROMETA:
_____ cestišče	1 kopni promet
_____ pristanišče	2 zračni promet
_____ kopališče	3 vodni promet
_____ pristajalna steza	
_____ železniški tir	
_____ kontrolni stolp	
_____ drsališče	
_____ reka	
_____ atletska steza	

	3

3. naloga

Oglej si zemljevid 2 in reši nalogo.

Zemljevid 2: Evropa

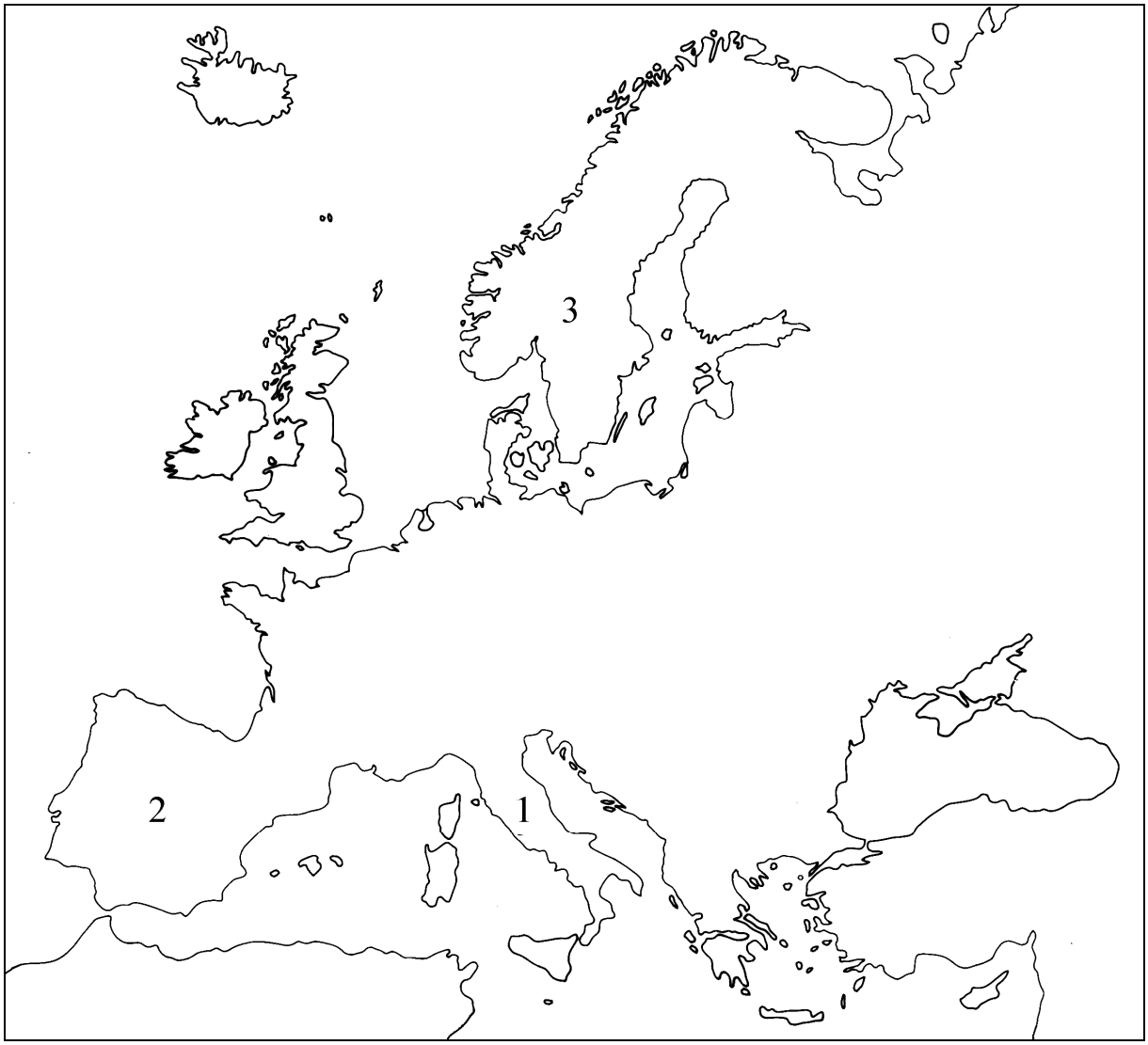

(Vir: Ric)

Na zemljevidu 2 so s številkami 1, 2 in 3 označeni trije polotoki Evrope.

Na črto ob številki zapiši ustrezno ime polotoka Evrope.

Polotok, označen s številko 1, je _____.

Polotok, označen s številko 2, je _____.

Polotok, označen s številko 3, je _____.

	3

4. naloga

Obkroži črki pred dvema državama zahodne Evrope.

A Italija.

B Francija.

C Nemčija.

D Velika Britanija.

E Španija.

	2

5. naloga

Oglej si zemljevid 3 in reši nalogo.

Zemljevid 3: Zemljevid sveta

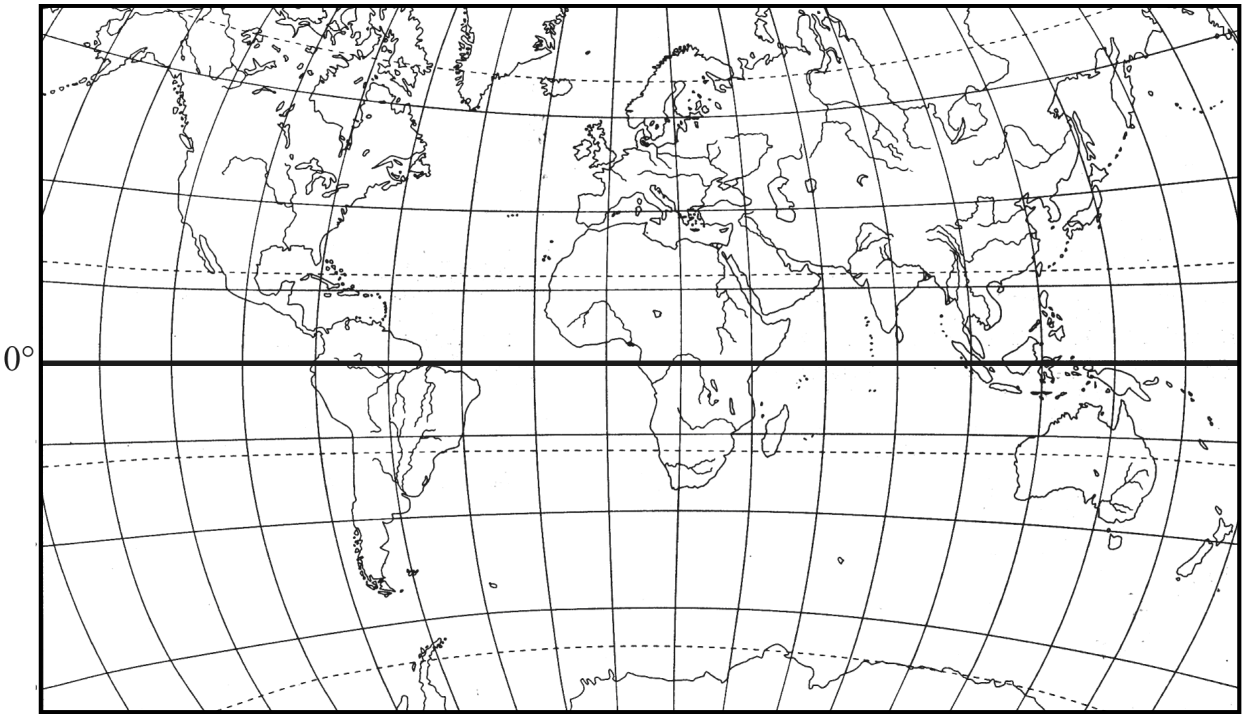

(Vir: Karmen Kolenc - Kolnik, Marta Otič, Ana Volk, Sodobni svet, Geografija za 7. razred osnovne šole, Delovni zvezek, Ljubljana 1997, str. 50)

Na zemljevidu 3 so narisani kontinenti. Z njegovo pomočjo določi geografsko lego **Avstralije** glede na ekvator in zapiši **ime oceana**, ki jo obliva. Nalogo rešiš tako, da dopolniš spodnji povedi.

a) Avstralija leži _____ od ekvatorja.

b) Avstralijo obliva _____ .

	2

6. naloga

Poljedelstvo je pomembna kmetijska panoga. Povedi, ki so nedokončane, se nanašajo na kmetijske pridelke v različnih delih sveta. Dopolni jih tako, da med tremi ponujenimi pojmi v oklepaju izbereš ustreznega in ga zapišeš na črto.

a) Največ riža pridelajo v _____ .

(tropski Afriki, Zahodni Evropi, monsunski Aziji)

b) Kava in kakav sta kmetijska pridelka _____ .

(Evrope, Avstralije, Afrike)

	2

7. naloga

Oglej si sliko 1 in reši nalogo.

Slika 1: Polje v Panonski nižini

(Vir: Slovenija, Pokrajina in ljudje, Ljubljana 1998, str. 552)

a) Na črti napiši značilnosti celinskega podnebja. Pri opisu bodi pozoren na značilne temperature in padavine.

_____

_____

b) Na črte napiši tri kulturne rastline, ki uspevajo v celinskem podnebju.

_____

_____

_____

	2

8. naloga

Oglej si sliko 2 in reši nalogo.

Slika 2: Naravni pojav

(Vir: Jurij Senegačnik, Borut Drobnjak, Marta Otič, Živim v Evropi, Zemljepis za 6. razred osnovne šole, Ljubljana 1999, str. 129)

a) Poimenuj naravni pojav na sliki 2.

Odgovor napiši na črto.

_____

b) Kako ljudje izkoriščamo naravni pojav na sliki 2?

Na črti napiši dva primera izkoriščanja.

_____

_____

c) Primerjaj naravni pojav na sliki 2 in slap?

Na črti napiši dve razliki med njima.

_____

_____

	3

9. naloga

Prebivalstvo je različno gosto naseljeno. Na Antarktiki in Arktiki pa stalno naseljenega prebivalstva ni.

Odgovora napiši na črti.

a) Razloži, zakaj se ljudje na Arktiki in Antarktiki ne naseljujejo stalno?

_____

b) Zakaj pa na Arktiki in Antarktiki kljub temu živijo živali?

_____

	2

10. naloga

Spodaj navedene trditve so povezane z značilnostmi prebivalstva Afrike.

Obkroži črke pred tremi pravilnimi odgovori.

A Sahara je gosto poseljeno območje Afrike.

B Veliko otrok v Afriki je podhranjenih.

C Južno od ekvatorja prevladuje črna rasa.

D Umrljivost otrok v Afriki je taka kot v Evropi.

E Večina ljudi v Afriki je nepismenih.

F Večina prebivalstva Afrike je zaposlena v industriji.

	3

11. naloga

Oglej si sliko 3 in reši nalogo.

Slika 3: Smučišče v Alpah

(Vir: Jurij Senegačnik, Borut Drobnjak, Marta Otič, Živim v Evropi, Zemljepis za 6. razred osnovne šole, Ljubljana 1999, str. 85)

V Alpah se je zaradi dobrih naravnih pogojev razvil turizem.

a) Navedi dve negativni posledici razvoja turizma v Alpah.

Odgovor napiši na črti.

_____

_____

b) Kaj bi morali storiti, da bi zmanjšali negativne posledice razvoja turizma?

Odgovor napiši na črti.

_____

_____

	2

12. naloga

Iz majhnega nerazvitega kraja v Sloveniji se prebivalstvo seli v večja mesta.
Kaj bi bilo treba v kraju spremeniti, da bi preprečili izseljevanje prebivalstva?

Na črte napiši tri rešitve problema.

Rešitev 1:_____

Rešitev 2:_____

Rešitev 3:_____

	3

II. DEL

ZGODOVINA

1. naloga

Razvrsti spodnje slike v časovno zaporedje. Nalogo rešiš tako, da na črto pod sliko napišeš zaporedno številko. Začni s sliko, ki prikazuje najstarejše obdobje.

Slika 4: Mostiščarji



(Vir: Marija Košak, Olga Janša - Zorn, Maja Umek, Atlas za spoznavanje družbe, Ljubljana 2000, str. 23)

_____

Slika 5: Emonec



(Vir: Ana Nuša Kern, Stari in srednji vek, Zgodovina za 6. razred osnovne šole, Vaje, Ljubljana 1997, str. 26)

_____

Slika 6: Telefon

(Vir: Silvio Paolucci, Giuseppina Signorini, Il corso della storia 3, Il mondo contemporaneo, Bologna 2002, str. H 59)

_____

Slika 7: Praljudje



(Vir: Zlata Pastar, Jelka Sobotkiewicz, Zgodovina 1, Delovni zvezek za zgodovino, Ljubljana 2000, str. 16)

_____

Slika 8: Srednjeveški grad



(Vir: Elissa Tawitian, Marjan Rode, Od prazgodovine skozi stari in srednji vek, Delovni zvezek za 7. razred devetletne osnovne šole, Ljubljana 2005, str. 77)

_____

2. naloga

Oglej si sliko 9 in reši nalogo.

Slika 9: Kmečki upor

(Vir: Ilustrirana zgodovina Slovencev, Ljubljana 1999, str. 142)

a) Zakaj so se kmetje uprli grajskemu gospodu? Navedi dva razloga za upor.

Odgovor napiši na črti.

_____

_____

b) Zakaj kmetje niso bili pri uporu uspešni? Navedi dva razloga.

Odgovor napiši v povedi na črti.

_____

_____

	2

3. naloga

Oglej si sliko 10 in reši nalogo.

Slika 10: Avtor prve knjige v slovenskem jeziku

(Vir: Ilustrirana zgodovina Slovencev, Ljubljana 1999, str. 156)

a) Kdo je napisal prvo knjigo v slovenskem jeziku?

Odgovor napiši na črto.

_____

b) Kako imenujemo obdobje, v katerem je nastala prva knjiga v slovenskem jeziku?

Obkroži črko pred pravilnim odgovorom.

A Obdobje preseljevanja Slovanov.

B Reformacija.

C Industrijska revolucija.

	2

4. naloga

Oglej si sliko 11 in reši nalogo.

Slika 11: Prva svetovna vojna

(Vir: Ervin Dolenc, Aleš Gabrič, Marjan Rode, 20. stoletje, Zgodovina za 8. razred osemletke in 9. razred devetletke, Ljubljana 2002, str. 11)

a) Naštetih je nekaj pojmov iz bojevanja. Obkroži črki pred dvema pojmoma, ki opisujeta način bojevanja v prvi svetovni vojni.

A Raketni ščit.

B Pozicijska vojna.

C Rov.

D Tankovska bitka.

E Legija.

F Terorizem.

b) V kateri državi so živeli Slovenci v času prve svetovne vojne?

Ime države napiši na črto.

_____

c) *Dopolni spodnjo poved.*

V času prve svetovne vojne je veliko slovenskih vojakov umrlo na

_____ fronti.

	3

5. naloga

a) Zakaj so se Slovenci po 1. svetovni vojni izseljevali?

Obkroži črki pred dvema pravilnima odgovoroma.

A Domača brezposelnost.

B Da bi se naučili tujih jezikov.

C Industrializacija domovine.

D Zadolževanje kmetij.

E Želja po avanturi.

b) Na kateri kontinent so se Slovenci po 1. svetovni vojni najpogosteje izseljevali?

Odgovor napiši na črto.

_____

	3

6. naloga

Življenje Slovencev se je v času od druge svetovne vojne do danes zelo spremenilo.

a) Napiši tri pozitivne spremembe.

Odgovor napiši v povedih na črte.

_____

_____

_____

b) Tudi pozitivne spremembe lahko prinesejo slabe posledice.

Na črto napiši primer.

_____

	2

III. DEL

DRŽAVLJANSKA VZGOJA IN ETIKA

1. naloga

a) Naštej tri vrste plačilnih sredstev.

Odgovor napiši na črte.

_____

_____

_____

b) *Preberi besedilo in odgovori na vprašanje.*

Janko je dobil 100 evrov za nakup šolskih potrebščin. Kupil pa si je sladoled, čokolado, bonbone, piškote, šel v kino, prijatelje povabil na pijačo, kupil strip. Nato mu je zmanjkalo denarja.

Kako je ravnal Janko z denarjem?

Odgovor napiši na črto.

_____

c) Kje lahko dobiš kredit?

Odgovor napiši na črto.

_____

	3

2. naloga

Kaj je značilno za demokratične države?
Obkroži črke pred tremi pravilnimi odgovori.

A Cenzura.

B Pravna država.

C Enopartijski sistem.

D Politične stranke.

E Parlament.

F Diktatura.

	3

SKUPAJ TOČK:

	50

PRAZNA STRAN

PRAZNA STRAN

PRAZNA STRAN

PRAZNA STRAN